SC@LPA

Fractions décimales sur 4 droites graduées

Fiche 688

Nom : _____

Date : ____ / ____ / _____

Complète chaque emplacement indiqué par une flèche : écris la fraction décimale puis le nombre décimal correspondant.

Droite A

graduée en dixièmes · départ 0 · 8 fractions

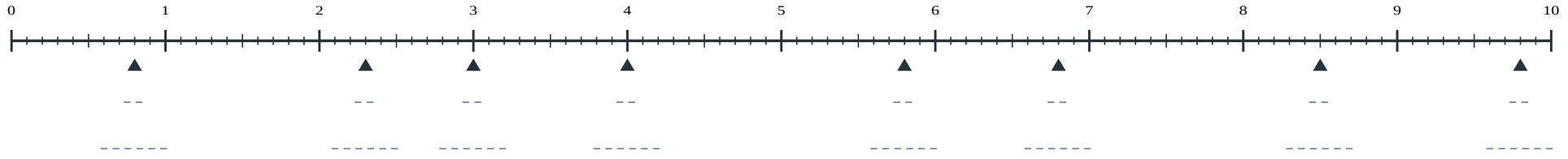

Droite B

graduée en dixièmes · départ 0 · 8 fractions

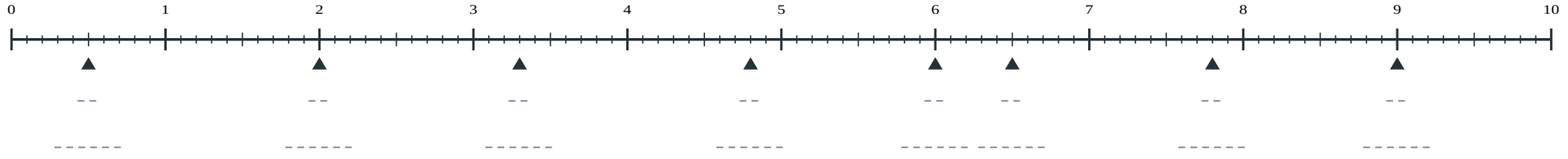

Droite C

graduée en dixièmes · départ 0 · 8 fractions

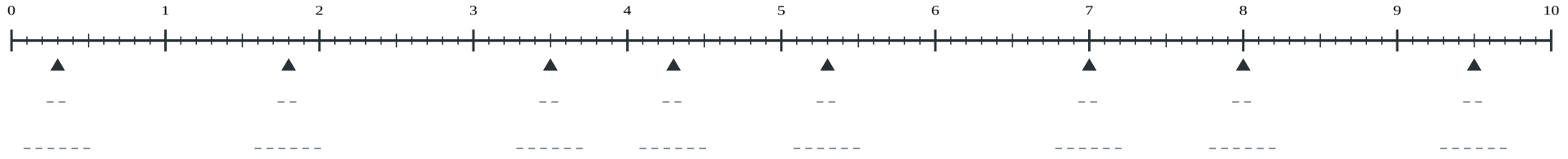

Droite D
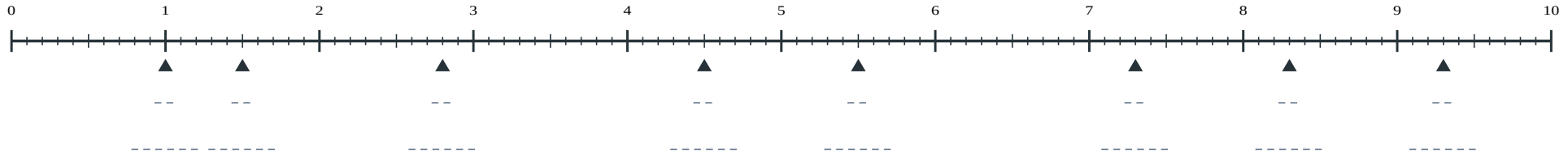
graduée en dixièmes · départ 0 · 8 fractions